Tạo Bảng và Đồ thị Tỷ lệ

Họ và Tên:

Giải các câu hỏi.

1) Mọi ly nước chanh đều yêu cầu 3 chanh.
Tạo một bảng hiển thị các ly nước chanh được làm bằng tối đa 5 quả chanh, sau đó vẽ biểu đồ các giá trị trên mặt phẳng tọa độ.

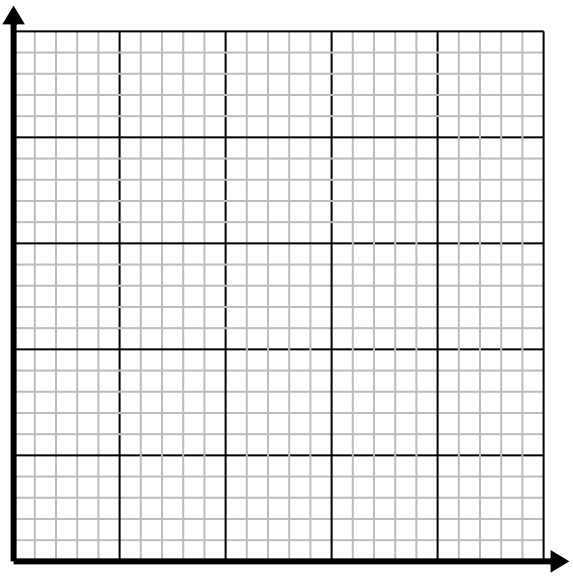

2) Đối với mỗi chiếc áo sơ mi, 4 nút được sử dụng.
Tạo bảng hiển thị các nút cần thiết để tạo tối đa 5 áo sơ mi, sau đó vẽ các giá trị trên mặt phẳng tọa độ.

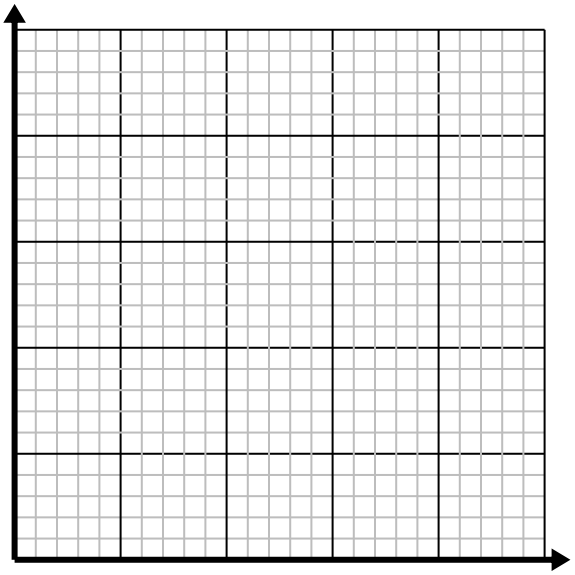

3) Mỗi hộp kẹo có 4 viên kẹo.
Tạo một bảng hiển thị các mẩu kẹo trong tối đa 5 hộp, sau đó vẽ các giá trị trên mặt phẳng tọa độ.

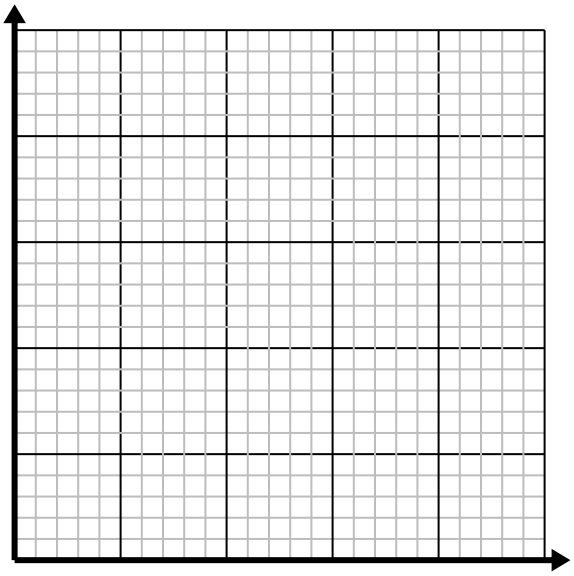

4) Đối với mỗi cốc bột, 2 có thể tạo ra một mẻ bánh quy.
Tạo một bảng hiển thị các lô bánh quy có thể làm được với tối đa 5 cốc bột, sau đó vẽ biểu đồ các giá trị trên mặt phẳng tọa độ.

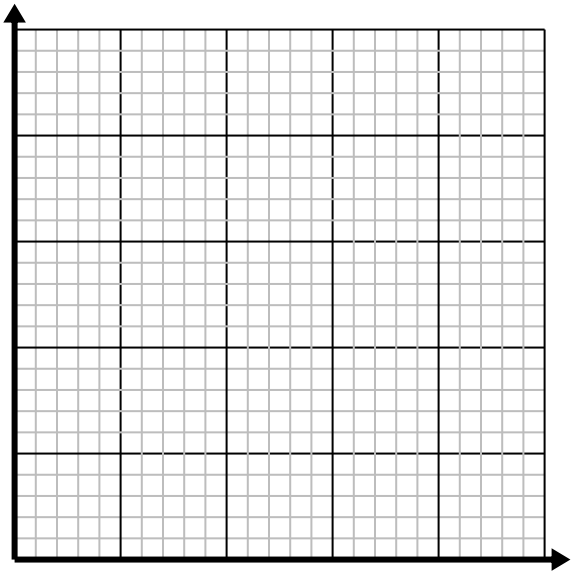

Giải các câu hỏi.

1) Mọi ly nước chanh đều yêu cầu 3 chanh.
Tạo một bảng hiển thị các ly nước chanh được làm bằng tối đa 5 quả chanh, sau đó vẽ biểu đồ các giá trị trên mặt phẳng tọa độ.

Kính đeo	1	2	3	4	5
Chanh được sử dụng	3	6	9	12	15

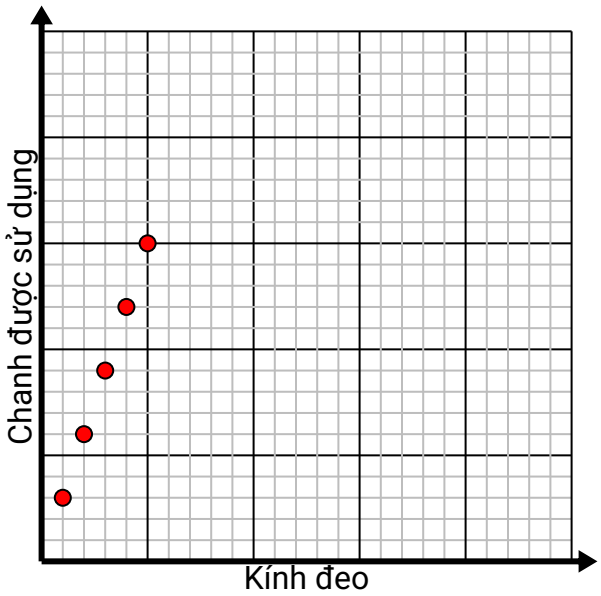

2) Đối với mỗi chiếc áo sơ mi, 4 nút được sử dụng.
Tạo bảng hiển thị các nút cần thiết để tạo tối đa 5 áo sơ mi, sau đó vẽ các giá trị trên mặt phẳng tọa độ.

Áo sơ mi Made	1	2	3	4	5
Các nút được sử dụng	4	8	12	16	20

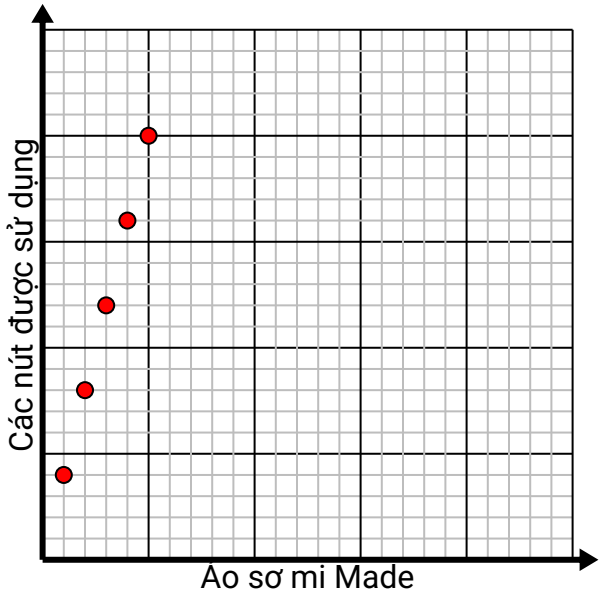

3) Mỗi hộp kẹo có 4 viên kẹo.
Tạo một bảng hiển thị các mẩu kẹo trong tối đa 5 hộp, sau đó vẽ các giá trị trên mặt phẳng tọa độ.

Hộp kẹo	1	2	3	4	5
Những miếng kẹo	4	8	12	16	20

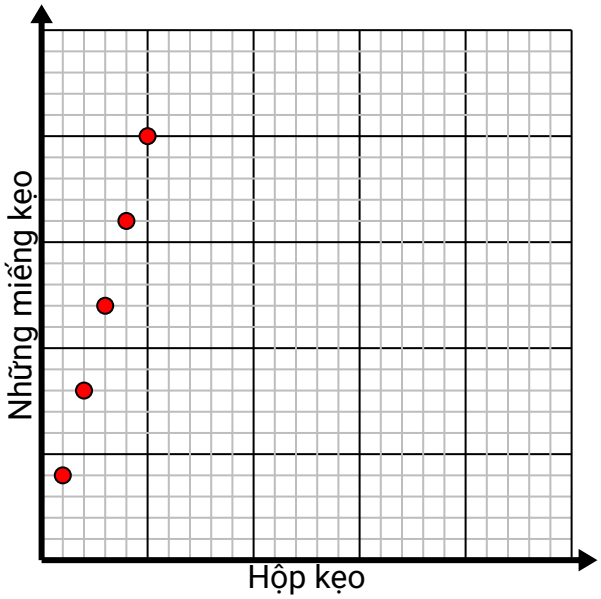

4) Đối với mỗi cốc bột, 2 có thể tạo ra một mẻ bánh quy.
Tạo một bảng hiển thị các lô bánh quy có thể làm được với tối đa 5 cốc bột, sau đó vẽ biểu đồ các giá trị trên mặt phẳng tọa độ.
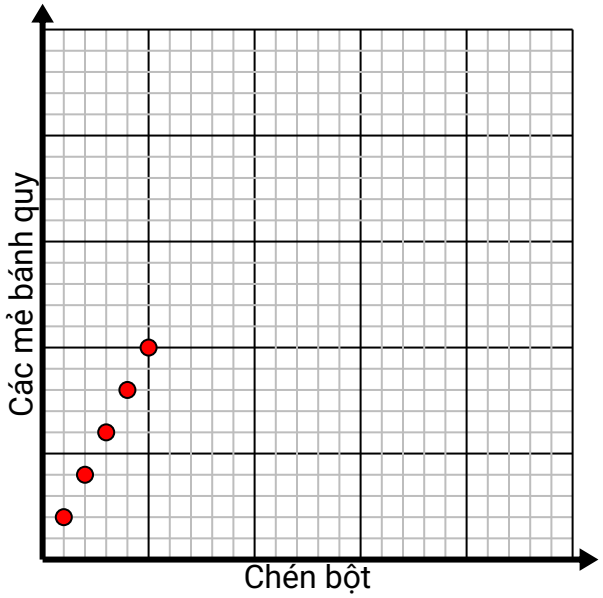
Chén bột	1	2	3	4	5
Các mẻ bánh quy	2	4	6	8	10