Phân số chỉ số lượng so với toàn bộ

Họ và Tên:

Giải các câu hỏi.

Vd) Biểu diễn mặt trăng như phân số so với toàn bộ hình.

1) Biểu diễn hình ngôi sao như phân số so với toàn bộ hình.

2) Biểu diễn hình vuông như phân số so với toàn bộ hình.

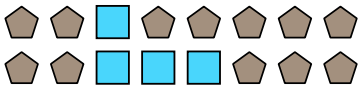

3) Biểu diễn trái tim như phân số so với toàn bộ hình.



4) Biểu diễn hình ngôi sao như phân số so với toàn bộ hình.



5) Biểu diễn trái tim như phân số so với toàn bộ hình.



6) Biểu diễn mặt trăng như phân số so với toàn bộ hình.

7) Biểu diễn hình vuông như phân số so với toàn bộ hình.

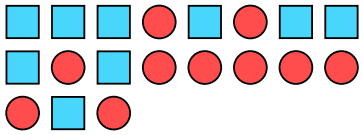

8) Biểu diễn hình ngôi sao như phân số so với toàn bộ hình.

9) Biểu diễn hình tam giác như phân số so với toàn bộ hình.

10) Biểu diễn hình tròn như phân số so với toàn bộ hình.

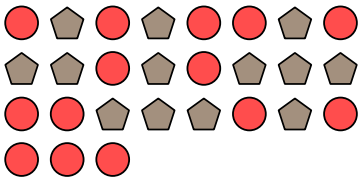

11) Biểu diễn hình ngôi sao như phân số so với toàn bộ hình.



Câu trả lời

Vd. 15/22

1. _____
2. _____
3. _____
4. _____
5. _____
6. _____
7. _____
8. _____
9. _____
10. _____
11. _____

1-10	91	82	73	64	55	45	36	27	18	9
11	0									

Phân số chỉ số lượng so với toàn bộ

Họ và Tên: **Lời giải**

Giải các câu hỏi.

Vd) Biểu diễn mặt trăng như phân số so với toàn bộ hình.

1) Biểu diễn hình ngôi sao như phân số so với toàn bộ hình.

2) Biểu diễn hình vuông như phân số so với toàn bộ hình.

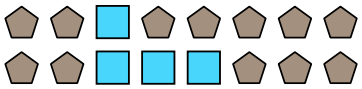

3) Biểu diễn trái tim như phân số so với toàn bộ hình.



4) Biểu diễn hình ngôi sao như phân số so với toàn bộ hình.



5) Biểu diễn trái tim như phân số so với toàn bộ hình.



6) Biểu diễn mặt trăng như phân số so với toàn bộ hình.

7) Biểu diễn hình vuông như phân số so với toàn bộ hình.

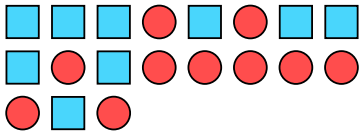

8) Biểu diễn hình ngôi sao như phân số so với toàn bộ hình.

9) Biểu diễn hình tam giác như phân số so với toàn bộ hình.

10) Biểu diễn hình tròn như phân số so với toàn bộ hình.

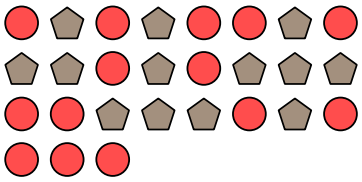

11) Biểu diễn hình ngôi sao như phân số so với toàn bộ hình.



Câu trả lời

Vd.	15/22
1.	3/13
2.	4/16
3.	6/9
4.	2/17
5.	9/19
6.	4/12
7.	9/19
8.	2/10
9.	6/11
10.	14/27
11.	7/17

1-10	91	82	73	64	55	45	36	27	18	9
11	0									