# Phân số chỉ số lượng so với toàn bộ

Họ và Tên:

**Giải các câu hỏi.**

**Vd)** Biểu diễn hình tam giác như phân số so với toàn bộ hình.

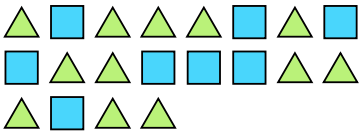

**1)** Biểu diễn hình ngôi sao như phân số so với toàn bộ hình.

**2)** Biểu diễn mặt trăng như phân số so với toàn bộ hình.

**3)** Biểu diễn mặt trăng như phân số so với toàn bộ hình.

**4)** Biểu diễn hình ngôi sao như phân số so với toàn bộ hình.



**5)** Biểu diễn hình tam giác như phân số so với toàn bộ hình.

**6)** Biểu diễn trái tim như phân số so với toàn bộ hình.

**7)** Biểu diễn trái tim như phân số so với toàn bộ hình.

**8)** Biểu diễn trái tim như phân số so với toàn bộ hình.

**9)** Biểu diễn hình vuông như phân số so với toàn bộ hình.

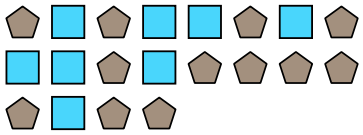

**10)** Biểu diễn trái tim như phân số so với toàn bộ hình.

**11)** Biểu diễn hình vuông như phân số so với toàn bộ hình.



## Câu trả lời

Vd. 12/20

1. _____
2. _____
3. _____
4. _____
5. _____
6. _____
7. _____
8. _____
9. _____
10. _____
11. _____



| | | | | | | | | | | |
|---|---|---|---|---|---|---|---|---|---|---|
| 1-10 | 91 | 82 | 73 | 64 | 55 | 45 | 36 | 27 | 18 | 9 |
| 11 | 0 | | | | | | | | | |

Phân số chỉ số lượng so với toàn bộ

Họ và Tên: **Lời giải**

**Giải các câu hỏi.**

**Vd)** Biểu diễn hình tam giác như phân số so với toàn bộ hình.

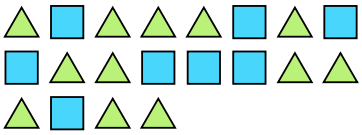

**1)** Biểu diễn hình ngôi sao như phân số so với toàn bộ hình.

**2)** Biểu diễn mặt trăng như phân số so với toàn bộ hình.

**3)** Biểu diễn mặt trăng như phân số so với toàn bộ hình.

**4)** Biểu diễn hình ngôi sao như phân số so với toàn bộ hình.



**5)** Biểu diễn hình tam giác như phân số so với toàn bộ hình.

**6)** Biểu diễn trái tim như phân số so với toàn bộ hình.

**7)** Biểu diễn trái tim như phân số so với toàn bộ hình.

**8)** Biểu diễn trái tim như phân số so với toàn bộ hình.

**9)** Biểu diễn hình vuông như phân số so với toàn bộ hình.

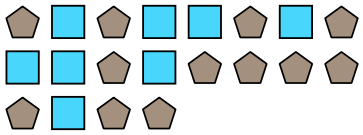

**10)** Biểu diễn trái tim như phân số so với toàn bộ hình.

**11)** Biểu diễn hình vuông như phân số so với toàn bộ hình.



## Câu trả lời

Vd. $\frac{12}{20}$

1. $\frac{3}{12}$
2. $\frac{11}{13}$
3. $\frac{10}{14}$
4. $\frac{8}{19}$
5. $\frac{8}{14}$
6. $\frac{2}{12}$
7. $\frac{9}{22}$
8. $\frac{9}{16}$
9. $\frac{8}{20}$
10. $\frac{4}{6}$
11. $\frac{13}{27}$



| | | | | | | | | | | |
|---|---|---|---|---|---|---|---|---|---|---|
| 1-10 | 91 | 82 | 73 | 64 | 55 | 45 | 36 | 27 | 18 | 9 |
| 11 | 0 | | | | | | | | | |