Phép chia bằng hình

Họ và Tên:

Dùng các hình được cho để trả lời câu hỏi.

Vd) Có bao nhiêu nhóm 6 mà bạn có thể tạo thành với 18 hình bên dưới?

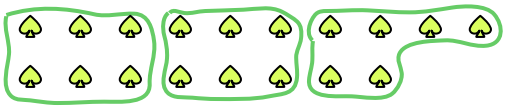

1) Có bao nhiêu nhóm 3 mà bạn có thể tạo thành với 9 hình bên dưới?

2) Có bao nhiêu nhóm 6 mà bạn có thể tạo thành với 18 hình bên dưới?

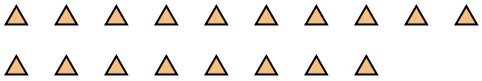

3) Có bao nhiêu nhóm 8 mà bạn có thể tạo thành với 16 hình bên dưới?

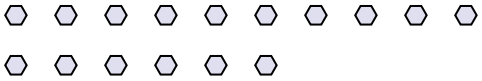

4) Có bao nhiêu nhóm 4 mà bạn có thể tạo thành với 8 hình bên dưới?

5) Có bao nhiêu nhóm 8 mà bạn có thể tạo thành với 16 hình bên dưới?

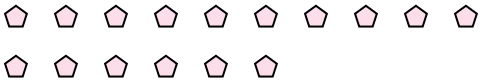

6) Có bao nhiêu nhóm 2 mà bạn có thể tạo thành với 24 hình bên dưới?

7) Có bao nhiêu nhóm 2 mà bạn có thể tạo thành với 18 hình bên dưới?

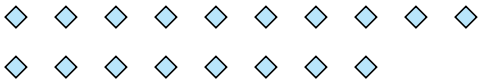

8) Có bao nhiêu nhóm 9 mà bạn có thể tạo thành với 27 hình bên dưới?



9) Có bao nhiêu nhóm 9 mà bạn có thể tạo thành với 36 hình bên dưới?



10) Có bao nhiêu nhóm 6 mà bạn có thể tạo thành với 30 hình bên dưới?

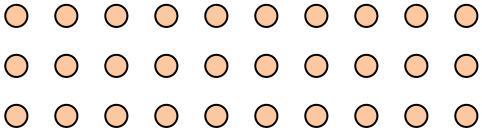

11) Có bao nhiêu nhóm 3 mà bạn có thể tạo thành với 39 hình bên dưới?

Câu trả lời

Vd. 3

1. _____
2. _____
3. _____
4. _____
5. _____
6. _____
7. _____
8. _____
9. _____
10. _____
11. _____

1-10	91	82	73	64	55	45	36	27	18	9
11	0									

Phép chia bằng hình

Họ và Tên: **Lời giải**

Dùng các hình được cho để trả lời câu hỏi.

Vd) Có bao nhiêu nhóm 6 mà bạn có thể tạo thành với 18 hình bên dưới?

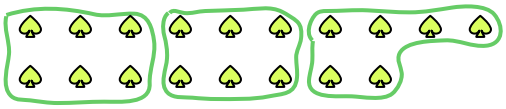

1) Có bao nhiêu nhóm 3 mà bạn có thể tạo thành với 9 hình bên dưới?

2) Có bao nhiêu nhóm 6 mà bạn có thể tạo thành với 18 hình bên dưới?

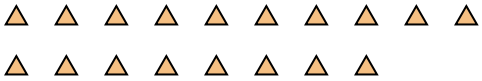

3) Có bao nhiêu nhóm 8 mà bạn có thể tạo thành với 16 hình bên dưới?

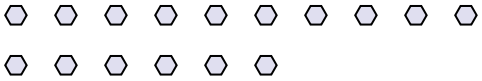

4) Có bao nhiêu nhóm 4 mà bạn có thể tạo thành với 8 hình bên dưới?

5) Có bao nhiêu nhóm 8 mà bạn có thể tạo thành với 16 hình bên dưới?

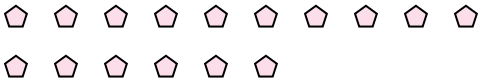

6) Có bao nhiêu nhóm 2 mà bạn có thể tạo thành với 24 hình bên dưới?

7) Có bao nhiêu nhóm 2 mà bạn có thể tạo thành với 18 hình bên dưới?

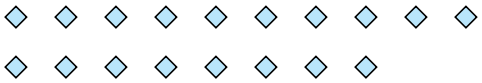

8) Có bao nhiêu nhóm 9 mà bạn có thể tạo thành với 27 hình bên dưới?



9) Có bao nhiêu nhóm 9 mà bạn có thể tạo thành với 36 hình bên dưới?



10) Có bao nhiêu nhóm 6 mà bạn có thể tạo thành với 30 hình bên dưới?

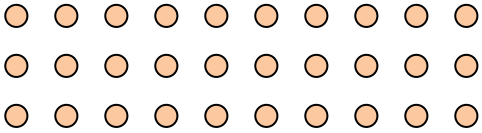

11) Có bao nhiêu nhóm 3 mà bạn có thể tạo thành với 39 hình bên dưới?

Câu trả lời

Vd.	3
1.	3
2.	3
3.	2
4.	2
5.	2
6.	12
7.	9
8.	3
9.	4
10.	5
11.	13

1-10	91	82	73	64	55	45	36	27	18	9
11	0									