Phép chia bằng hình

Họ và Tên:

Dùng các hình được cho để trả lời câu hỏi.

Vd) Bạn có thể tạo được bao nhiêu nhóm 6 từ 18 hình bên dưới?

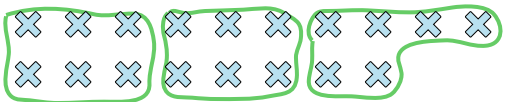

1) Bạn có thể tạo được bao nhiêu nhóm 4 từ 40 hình bên dưới?



2) Bạn có thể tạo được bao nhiêu nhóm 2 từ 18 hình bên dưới?



3) Bạn có thể tạo được bao nhiêu nhóm 8 từ 16 hình bên dưới?

4) Bạn có thể tạo được bao nhiêu nhóm 9 từ 27 hình bên dưới?



5) Bạn có thể tạo được bao nhiêu nhóm 4 từ 28 hình bên dưới?

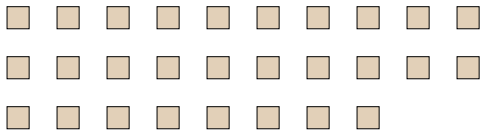

6) Bạn có thể tạo được bao nhiêu nhóm 4 từ 24 hình bên dưới?

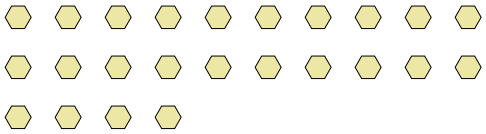

7) Bạn có thể tạo được bao nhiêu nhóm 3 từ 18 hình bên dưới?

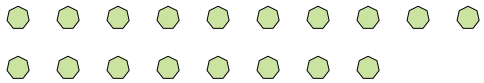

8) Bạn có thể tạo được bao nhiêu nhóm 5 từ 35 hình bên dưới?



9) Bạn có thể tạo được bao nhiêu nhóm 9 từ 36 hình bên dưới?



10) Bạn có thể tạo được bao nhiêu nhóm 5 từ 25 hình bên dưới?

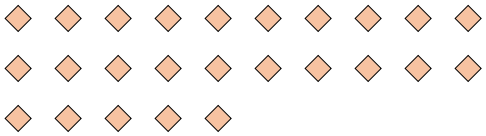

11) Bạn có thể tạo được bao nhiêu nhóm 6 từ 12 hình bên dưới?

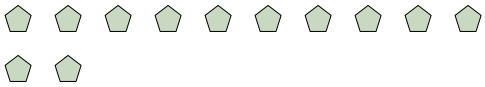

Câu trả lời

Vd. 3

1. _____
2. _____
3. _____
4. _____
5. _____
6. _____
7. _____
8. _____
9. _____
10. _____
11. _____

Phép chia bằng hình

Họ và Tên: **Lời giải**

Dùng các hình được cho để trả lời câu hỏi.

Vd) Bạn có thể tạo được bao nhiêu nhóm 6 từ 18 hình bên dưới?

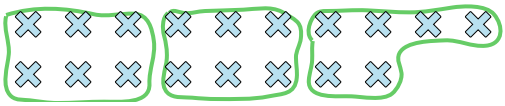

1) Bạn có thể tạo được bao nhiêu nhóm 4 từ 40 hình bên dưới?



2) Bạn có thể tạo được bao nhiêu nhóm 2 từ 18 hình bên dưới?



3) Bạn có thể tạo được bao nhiêu nhóm 8 từ 16 hình bên dưới?

4) Bạn có thể tạo được bao nhiêu nhóm 9 từ 27 hình bên dưới?



5) Bạn có thể tạo được bao nhiêu nhóm 4 từ 28 hình bên dưới?

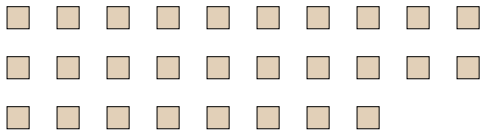

6) Bạn có thể tạo được bao nhiêu nhóm 4 từ 24 hình bên dưới?

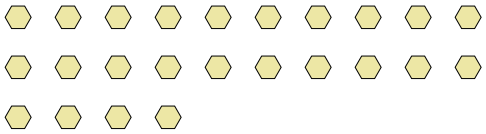

7) Bạn có thể tạo được bao nhiêu nhóm 3 từ 18 hình bên dưới?

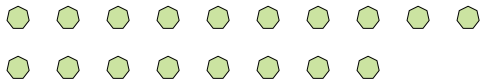

8) Bạn có thể tạo được bao nhiêu nhóm 5 từ 35 hình bên dưới?



9) Bạn có thể tạo được bao nhiêu nhóm 9 từ 36 hình bên dưới?



10) Bạn có thể tạo được bao nhiêu nhóm 5 từ 25 hình bên dưới?

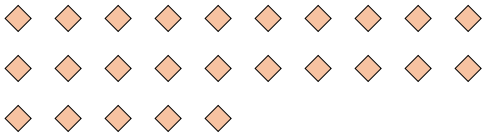

11) Bạn có thể tạo được bao nhiêu nhóm 6 từ 12 hình bên dưới?

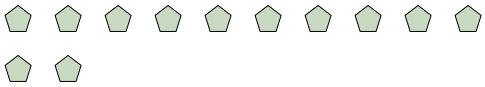

Câu trả lời

Vd.	3
1.	10
2.	9
3.	2
4.	3
5.	7
6.	6
7.	6
8.	7
9.	4
10.	5
11.	2